Итоговая диагностическая работа

По ИСТОРИИ

7 класс

Демонстрационный вариант

Инструкция по выполнению работы

На выполнение работы по истории отводится 55 минут. Работа включает в себя 19 заданий.

Ответы к заданиям 1–12 записываются в виде одной цифры, которая соответствует номеру правильного ответа. Эту цифру запишите в поле ответа в тексте работы.

Ответы к заданиям 13, 14, 17 и 18 запишите в виде последовательности цифр в поле ответа в тексте работы.

В случае записи неверного ответа на задания зачеркните его и запишите рядом новый.

Задания 15 и 16 выполните на карте в работе.

Задание 19 требует развёрнутого ответа, ответ запишите в поле под заданием.

При выполнении заданий Вы можете пользоваться черновиком. Обращаем Ваше внимание на то, что записи в черновике не будут учитываться при оценивании работы.

Советуем выполнять задания в том порядке, в котором они даны. В целях экономии времени пропускайте задание, которое не удаётся выполнить сразу, и переходите к следующему. Если после выполнения всей работы у Вас останется время, то Вы сможете вернуться к пропущенным заданиям. Постарайтесь выполнить как можно больше заданий.

Желаем удачи!

© 2015 СтатГрад

При выполнении заданий 1–12 в поле ответа запишите одну цифру, которая соответствует номеру правильного ответа.

1 Начало реформации в Германии связано с деятельностью

1) Жана Кальвина
2) Генриха VIII
3) Мартина Лютера
4) Игнатия Лойолы

Ответ: ☐

2 Прочтите отрывок из нормативного акта и укажите год, когда этот акт был издан.

«Объявляется и утверждается ныне существующим парламентом и его властью, что народ Англии и всех принадлежащих ей владений и территорий есть и будет... Республикой и свободным государством и что отныне он будет управляться как Республика и свободное государство верховной властью английской нации, представителями народа в парламенте и теми, которых они назначат и определят как подчинённых им должностных лиц и чиновников, ко благу народов и без какого бы то ни было короля и палаты лордов».

1) 1555 г. 2) 1649 г. 3) 1689 г. 4) 1776 г.

Ответ: ☐

3 Что из перечисленного стало одним из последствий победы США в Войне за независимость?

1) созыв Первого Континентального конгресса
2) начало Семилетней войны
3) конфискация земель английского короля и лордов на территории США
4) ликвидация рабовладельческих плантационных хозяйств на юге страны

Ответ: ☐

4 Укажите английского драматурга, автора пьес «Ромео и Джульетта», «Гамлет», «Отелло», «Король Лир».

1) Фрэнсис Бэкон
2) Томас Мор
3) Уильям Шекспир
4) Джон Локк

Ответ: ☐

© 2015 СтатГрад

5 Какой из перечисленных документов, принятый в первой четверти XVIII в., регламентировал порядок прохождения государственной и военной службы?

1) Табель о рангах
2) жалованная грамота дворянству
3) манифест о вольности дворянской
4) указ о единонаследии

Ответ: ☐

6 Прочтите отрывок из нормативного акта и укажите год, когда этот акт был принят.

«Которые государевы дворцовых сёл и чёрных волостей крестьяне и бобыли, выбежав из государевых дворцовых сёл и из чёрных волостей, живут за патриархом, или за митрополитом, и за архиепископами, и епископами, или за монастырями, или за боярами, или за окольничими и за думными, и за комнатными людьми, и за стольниками и за стряпчими, и за дворянами московскими, и за дьяками… и за городовыми дворянами и детьми боярскими, и за иноземцами, и за всякими вотчинниками и помещиками, а в писцовых книгах, которые книги писцы подали в Поместный и в иные приказы после московского пожара прошлого 134 года, те беглые крестьяне или отцы их написаны за государем, и тех государевых беглых крестьян и бобылей сыскивая, свозить в государевы дворцовые сёла и в чёрные волости, на старые их жеребьи, по писцовым книгам с жёнами и с детьми… без урочных лет».

1) 1613 г. 2) 1649 г. 3) 1667 г. 4) 1714 г.

Ответ: ☐

7 Что из перечисленного явилось одним из результатов народного восстания в Москве в 1662 г.?

1) введение подушной подати
2) введение заповедных лет
3) прекращение чеканки медных денег
4) создание стрелецкого войска

Ответ: ☐

8 Какое из перечисленных событий относится к XVII в.?

1) открытие в России первых школ при монастырях
2) издание первой печатной книги в России
3) открытие Славяно-греко-латинской академии в Москве
4) открытие Кунсткамеры

Ответ: ☐

© 2015 СтатГрад

9 «Кондиции», первоначально подписанные Анной Иоанновной,

1) гарантировали дворянам свободу предпринимательской деятельности
2) укрепляли абсолютную власть императрицы
3) предусматривали создание представительного органа
4) ограничивали власть императрицы

Ответ: ☐

10 Прочтите отрывок из донесения военачальника и укажите год, когда произошли описанные события.

«Лёгкие войска, завоевавшие неприятельской лагерь, возвратились… и вкупе с карабинерами, армии подполковник Иван и донской полковник Григорий Греков, с их полками, как и арнауты при майоре Соболевском, скололи и поразили множество [врагов]. Они рассыпались за лежащей под Тыргокуколой лес к стороне речки Рымник, часть, бежавшая по Букарештской дороге на местечко Рымник, пред сим за сутки к Тыргокуколи оттуда прибыли, собравшись там из разбитых после поражения при Фокшанах. Я велел ей дать золотой мост, дирекция моя была важнее сего».

1) 1739 г. 2) 1774 г. 3) 1789 г. 4) 1793 г.

Ответ: ☐

11 Что из перечисленного явилось одним из результатов внешней политики Екатерины II?

1) присоединение к России Левобережной Украины
2) получение Россией выхода к Азовскому морю
3) присоединение к Российской империи Крыма и Северного Причерноморья
4) получение Россией выхода к Балтийскому морю

Ответ: ☐

12 Учреждённый указом Елизаветы Петровны университет был открыт в

1) Санкт-Петербурге
2) Москве
3) Нижнем Новгороде
4) Казани

Ответ: ☐

© 2015 СтатГрад

Ответом к заданиям 13 и 14 является последовательность цифр. Запишите эту последовательность цифр в поле ответа в тексте работы.

13 Расположите в хронологическом порядке следующие события. Укажите ответ в виде последовательности цифр выбранных элементов.

1) начало регентства царевны Софьи
2) Переяславская рада
3) учреждение Правительствующего сената

Ответ: | | | |

14 Какие из перечисленных событий относятся к периоду правления царя Алексея Михайловича? Выберите из приведённого списка два события и запишите цифры, под которыми они указаны.

1) издание Новоторгового устава
2) Смоленская война
3) Азовское осадное сидение
4) отмена местничества
5) восстание под предводительством Степана Разина

Ответ: | | |

© 2015 СтатГрад

Рассмотрите контурную карту и выполните задания 15 и 16.

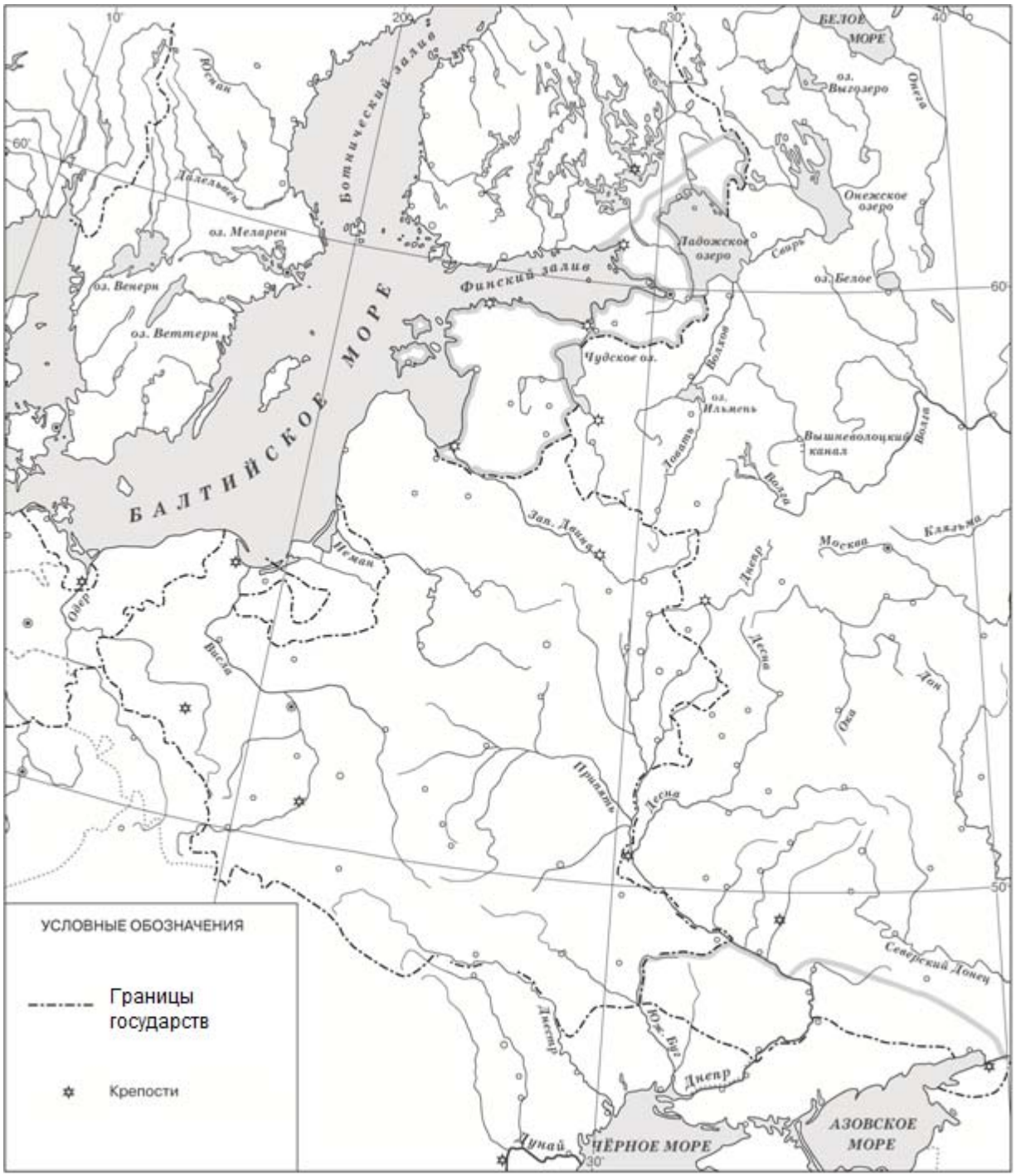

15 Обозначьте на контурной карте крестиком место, где состоялась Полтавская битва. Обозначьте крестиком место Гангутского сражения.

16 Заштрихуйте на контурной карте территорию, присоединённую к Российской империи по Ништадтскому мирному договору.

© 2015 СтатГрад

Ответом к заданиям 17 и 18 является последовательность цифр. Запишите эту последовательность цифр в поле ответа в тексте работы.

17 Прочтите текст (каждое предложение пронумеровано), в котором нарушена последовательность предложений.

(1) Пруссия заняла Поморье, Австрия – Галицию, а Россия – восточную Белоруссию и часть Ливонии. (2) В 1772 г. Россия, Австрия и Пруссия разделили между собой часть территорий этого государства. (3) Союзные с Россией Австрия и Пруссия неоднократно предлагали России предпринять раздел слабеющей Речи Посполитой. (4) По второму разделу к Пруссии отошло всё балтийское побережье Польши с Гданьском и Великая Польша с Познанью, а к России – Белоруссия с Минском и Правобережная Украина. (5) И тогда Екатерина согласилась на раздел Речи Посполитой. (6) Екатерина II не шла на него из-за того, что польским королём в это время был её ставленник Станислав Понятовский. (7) Однако после побед России в ходе русско-турецкой войны 1768–1774 гг. сложилась вполне реальная угроза заключения союза Турции с Австрией для совместной борьбы против России.

Напишите правильную последовательность предложений, указав их порядковые номера.

Ответ: | | | | | | | |

© 2015 СтатГрад

18 Ниже приведены названия или изображения произведений культуры. Какие два из приведённых произведений культуры были созданы в XVII в.? В ответе запишите цифры, под которыми они указаны.

1) «Повесть о Шемякином суде»
2) «Царь-пушка»
3) дворец царя Алексея Михайловича в Коломенском
4) 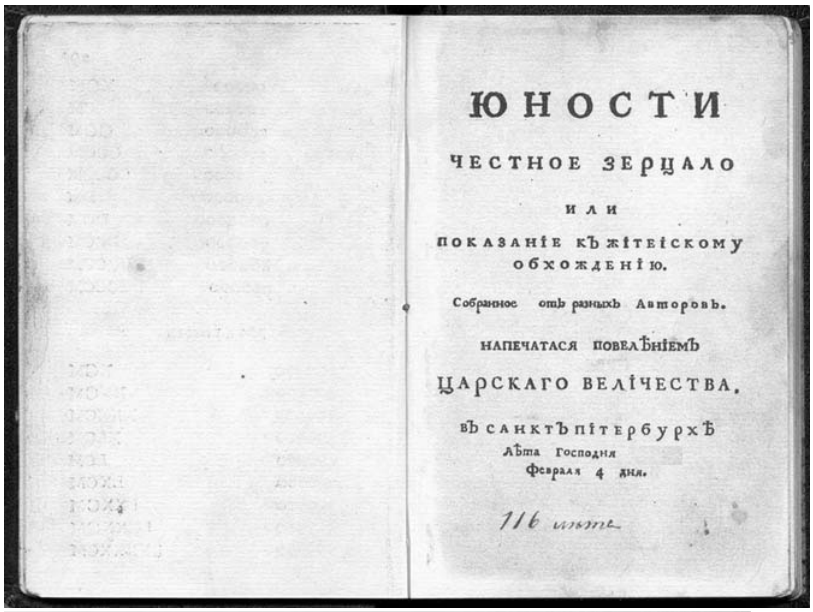

ЮНОСТИ
ЧЕСТНОЕ ЗЕРЦАЛО
ИЛИ
ПОКАЗАНІЕ КЪ ЖІТЕІСКОМУ ОБХОЖДЕНІЮ.
Собранное отъ разныхъ Авторовъ.
НАПЕЧАТАСЯ ПОВЕЛѢНІЕМЪ
ЦАРСКАГО ВЕЛІЧЕСТВА.
ВЪ САНКТЪ ПІТЕРБУРХѢ
Лѣта Господня
Февраля 4 дня.
116 листъ

5)

Ответ: | | |

© 2015 СтатГрад

Для записи ответа на задание 19 используйте поле под заданием.

19 Прочтите приведённый ниже список.

1) *смерть царя Фёдора*; 2) *патриарх Иов*; 3) *пресечение правившей династии*; 4) *аресты бояр Романовых*; 5) *Земский собор*; 6) *отказ от престола.*

Напишите небольшое историческое сочинение, в котором будут использованы все элементы из приведённого списка. При написании сочинения продемонстрируйте на фактическом материале Ваше знание истории по соответствующей эпохе (периоду, событию, явлению, процессу).

© 2015 СтатГрад

Ответы к заданиям

№ задания	Ответ
1	3
2	2
3	3
4	3
5	1
6	2
7	3
8	3
9	4
10	3
11	3
12	2
13	213
14	15
17	3675214
18	13

© 2015 СтатГрад

Критерии оценивания заданий с развёрнутым ответом

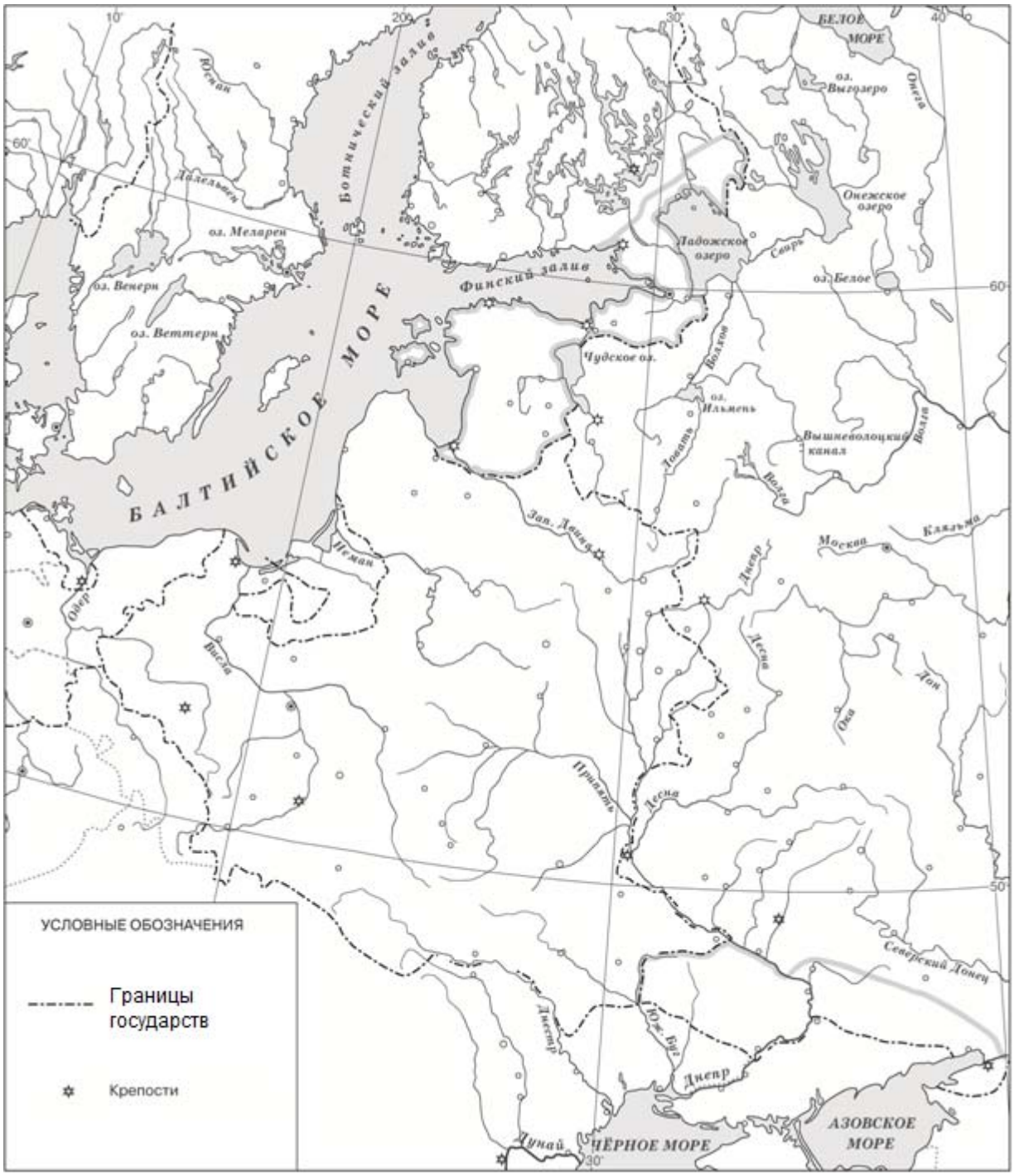

© 2015 СтатГрад

15 Обозначьте на контурной карте крестиком место, где состоялась Полтавская битва. Обозначьте крестиком место Гангутского сражения.

Указания по оцениванию	Баллы
Правильно обозначены места Полтавской битвы и Гангутского сражения (допустимы небольшие отклонения, связанные с недостаточной аккуратностью)	2
Правильно обозначено только место Полтавской битвы. ИЛИ Правильно обозначено только место Гангутского сражения	1
Ответ неправильный	0
Максимальный балл	*2*

16 Заштрихуйте на контурной карте территорию, присоединённую к Российской империи по Ништадтскому мирному договору.

Указания по оцениванию	Баллы
Правильно заштрихована территория, присоединённая к Российской империи по Ништадтскому мирному договору	2
При выполнении задания была(-и) допущена(-ы) негрубая(-ые) ошибка(-и), но выполнение задания свидетельствует о наличии у учащегося знания / понимания рассматриваемой исторической ситуации	1
При выполнении задания была(-и) допущена(-ы) грубая(-ые) ошибка(-и), и / или выполнение задания свидетельствует об отсутствии у учащегося знания / понимания рассматриваемой исторической ситуации. ИЛИ Задание не выполнено	0
Максимальный балл	*2*

19 Прочтите приведённый ниже список.

1) *смерть царя Фёдора*; 2) *патриарх Иов*; 3) *пресечение правившей династии*; 4) *аресты бояр Романовых*; 5) *Земский собор*; 6) *отказ от престола.*

Напишите небольшое историческое сочинение, в котором будут использованы все элементы из приведённого списка. При написании сочинения продемонстрируйте на фактическом материале Ваше знание истории по соответствующей эпохе (периоду, событию, явлению, процессу).

Среди критериев, по которым оценивается выполнение задания, критерий К1 является определяющим. Если приведённые учащимся факты свидетельствуют о том, что он неправильно определил эпоху (период, событие, явление, процесс), которой должно быть посвящено сочинение, или факты, использованные при написании сочинения, существенно искажают содержание и свидетельствуют о непонимании учащимся эпохи (периода, события, явления, процесса), то по критерию К1 выставляется 0 баллов, и сочинение дальше не проверяется. По остальным критериям (К2, К3, К4) в протокол проверки заданий с развёрнутым ответом выставляется 0 баллов.

© 2015 СтатГрад

Содержание верного ответа и указания по оцениванию (допускаются иные формулировки ответа, не искажающие его смысла)	
Одно из возможных исторических сочинений В январе 1598 года умер царь Фёдор. С его смертью пресеклась правившая в России династия. Взоры москвичей обратились на Бориса Годунова. Он не был потомком Рюрика, но в течение нескольких лет управлял государством. Многие важные государственные посты занимали его сторонники и родственники. В феврале, когда истекло время траура по Фёдору, в Кремле собрался Земский собор. При активной поддержке патриарха Иова царём был избран Годунов. Борис не принимал участия в работе собора. Он молился в Новодевичьем монастыре вместе со своей неутешной сестрой Ириной. Патриарх Иов и члены собора отправились в монастырь сообщить Ирине и Борису весть о своём решении. Но Борис Годунов от престола отказался. Он прекрасно понимал, что никаких прав на престол не имеет. И только после того, как патриарх Иов организовал несколько народных шествий к монастырю, Борис согласился въехать в царские палаты. Борис Годунов, в отличие от Ивана Грозного, отказался от политики устрашения своих подданных и массовых казней. Но со своими врагами он не церемонился. Так, в 1600 году по ложному обвинению были арестованы бояре Романовы, двоюродные братья царя Фёдора, которые могли бы предъявить притязания на престол. Старший из братьев, Фёдор Никитич, был пострижен в монахи и под именем Филарета отправлен в один из северных монастырей. Трое младших братьев Романовых вскоре умерли в ссылке.	

	Критерии оценивания	**Баллы**
К1	**Смысловое соответствие исторического сочинения эпохе (периоду, событию, явлению, процессу), при характеристике которой могут быть использованы элементы из списка**	**1**
	Историческое сочинение посвящено эпохе (периоду, событию, явлению, процессу), к которой относятся элементы из списка	1
	Историческое сочинение не соответствует эпохе (периоду, событию, явлению, процессу), при характеристике которой могут быть использованы элементы из списка. ИЛИ Факты, использованные при написании сочинения, существенно искажают смысл ответа и / или не свидетельствуют о знании / понимании учащимся эпохи (периода, события, явления, процесса)	0
К2	**Использование элементов из списка**	**3**
	Корректно использованы все элементы из приведённого списка	3
	Корректно использованы пять элементов из приведённого списка (один элемент не использован или использован некорректно)	2
	Корректно использованы три-четыре элемента из приведённого списка (остальные элементы не использованы или использованы некорректно)	1
	Корректно использованы только один-два элемента из приведённого списка. ИЛИ Все элементы из списка использованы некорректно. ИЛИ Элементы из списка не использованы	0

© 2015 СтатГрад

К3	**Отсутствие фактических ошибок** ***(Оценивание по критерию К3 производится только в случае, если по критериям К1, К2 выставлено не менее 2 баллов).***	**2**
	Отсутствуют фактические ошибки (ошибки, связанные с некорректным использованием элементов из списка, не засчитываются)	2
	Допущены одна-две фактические ошибки (ошибки, связанные с некорректным использованием элементов из списка, не засчитываются), не приведшие к существенному искажению смысла	1
	Допущено более двух фактических ошибок (ошибки, связанные с некорректным использованием элементов из списка, не засчитываются), не приведших к существенному искажению смысла	0
К4	**Форма изложения**	**1**
	Весь ответ представлен в виде исторического сочинения (последовательное, связное изложение материала)	1
	Ответ представлен в виде отдельных отрывочных положений	0
	Максимальный балл	***7***

© 2015 СтатГрад